報告課題　地理総合　２部　国際理解と国際協力　２章　第５回

◎教科書『新地理総合』P.135～182 を読んで、次の問題に取り組みましょう。

１．「地球的課題と持続可能な社会」についての問題です。下の図は、相互に関連する地球的課題について示したものである。図中のＡ～Ｄの矢印に該当する項目をそれぞれ語群から選び、記号で答えなさい。

解答番号 1～4　知識・技能

P.136

Ａ（ 1 ）　Ｂ（ 2 ）　Ｃ（ 3 ）　Ｄ（ 4 ）

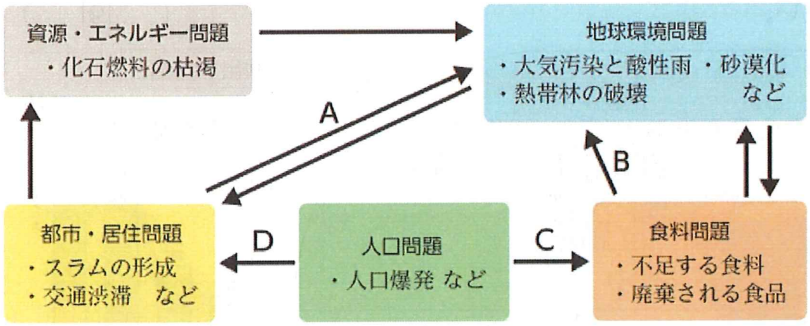

ア．貧困、食料不足
イ．都市への人口集中
ウ．食料増産のための農地の拡大
エ．大量のエネルギーと資源の需要
オ．過密による環境の悪化
カ．資源利用の跡地の荒廃
キ．農業生産の減少

２．「地球環境問題」についての問題です。

問１「多様な地球環境問題」「熱帯林の破壊への対策」について、次の各問に答えなさい。

解答番号 5　知識・技能　解答番号 6　思考・判断・表現

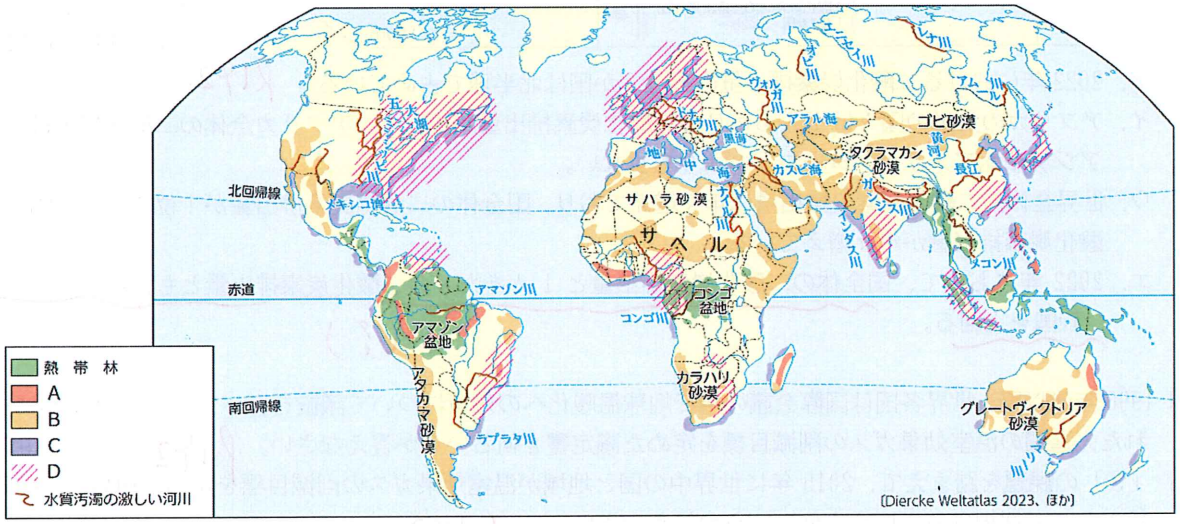

【説明文】

・農地開発や木材確保のために世界各地で森林破壊が進んでおり、特に熱帯林の破壊は深刻で、多様な（ X ）の崩壊や二酸化炭素の吸収量の減少など、地球全体の（ X ）システムに影響を与えている。 P.138

・（ Y ）:乾燥した草原地帯がその地域にあてはまる。この現象は過耕作や過放牧などが影響しているといわれる。 P.138

・（ Z ）:産業が進んだ国々が多い地域があてはまる。この現象は化石燃料の燃焼が影響しているといわれる。 P.138

〔１〕上の地球環境問題について説明文の空欄Ｘに入る適語を、漢字３文字で答えなさい。　（ 5 ）

〔２〕上の地図の凡例Ａ～Ｄは「酸性雨の影響を受けている地域」、「水質汚濁の激しい水域」、「砂漠化が進んでいる地域」、「熱帯林の破壊が進んでいる地域」のいずれかを示している。説明文のＹとＺにあてはまる、凡例Ａ～Ｄとの組み合わせとして適切なものを、右のア～エのうちから一つ選び、記号で答えなさい。　（ 6 ）

P.138

	ア	イ	ウ	エ
Y	A	B	A	B
Z	C	D	D	C

P.138

問2「地球温暖化への対策」について、次の各問に答えなさい。

解答番号 7~9 思考・判断・表現　解答番号 10~11 知識・技能

〔1〕地球温暖化の原因について、空欄に入る適語を答えなさい。8は高・低のどちらかで答えなさい。

地球の平均気温が上昇する地球温暖化の原因は、人間の経済活動などによって排出される二酸化炭素などの（　7　）の増加だと考えられている。 P.142

産業革命以降、人類は大量の化石燃料を使用し続けてきたため、燃焼時に排出される二酸化炭素の大気中濃度が、20世紀中頃から（　8　）くなっている。 P.142

〔2〕下の二つの資料から読み取れる二酸化炭素の排出量について述べた文として適当でないものを、次のア～エのうちから一つ選び、記号で答えなさい。（　9　）

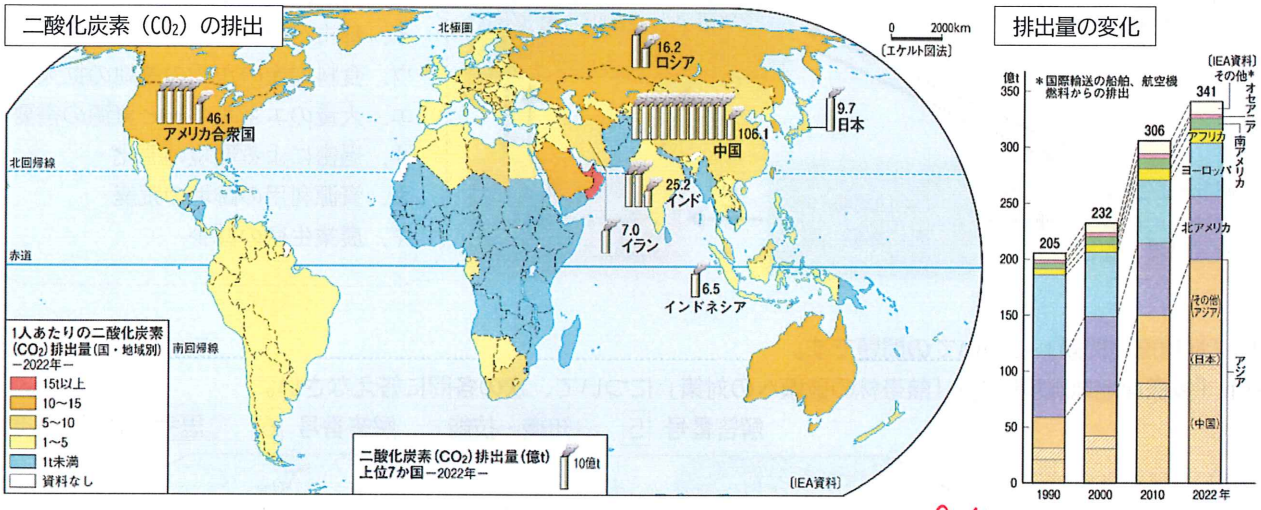

ア．2022年における二酸化炭素排出量の上位6か国は北半球で占めている。 P.142

イ．アフリカの大半の国々は1人あたりの二酸化炭素排出量が少なく、アフリカ全体の二酸化炭素排出量もアジアや北アメリカ、ヨーロッパよりも少ない。

ウ．世界全体の二酸化炭素の排出量は年々増えており、国全体の二酸化炭素排出量が1位である中国でも二酸化炭素排出量が年々増えている。

エ．2022年において、国全体の二酸化炭素排出量と1人あたりの二酸化炭素排出量ともに中国がアメリカ合衆国を上回る。 (?)

〔3〕1990年代以降、世界各国は国際会議の場で地球温暖化への対策について議論を行ってきた。1997年に採択された先進国の温室効果ガスの削減目標を定めた議定書を何というか答えなさい。 P.142 （　10　）

〔4〕〔3〕の課題を踏まえて、2015年に世界中の国と地域が温室効果ガスの削減目標を定めた初めての国際的枠組みとして採択された協定を何というか答えなさい。 P.143 （　11　）

3.「資源・エネルギー問題」についての問題です。

問1「世界のエネルギー・鉱産資源」について、次の各問に答えなさい。 解答番号 12~14 知識・技能

名称	特徴	エネルギー資源
（　12　）	自然界にそのままで存在するもの P.148	水力や風力、化石燃料や原子力燃料のウランなど
（　13　） P.148	12を加工しているもの	電力や、天然ガスからつくられる都市ガス、原油からつくられるガソリンなど

〔1〕上の表は、エネルギー資源の種類をまとめたものである。空欄に入る適語を語群から選び、記号で答えなさい。

ア．1次エネルギー　　イ．2次エネルギー

〔2〕1960年代後半に、エネルギー消費の中心が石炭に代わって石油となった現象を何というか答えなさい。（　14　）

P.148

問２「エネルギー利用の現状と課題」「地域で異なるエネルギー問題」について、次の各問に答えなさい。

解答番号 15～20　知識・技能　解答番号 21～22　思考・判断・表現

〔１〕下の地図は、主な資源の産出地と各国のエネルギー供給（消費）量を示したものである。地図から読み取った次のＡ～Ｃの文について、正しいか、誤っているか、記号で答えなさい。

ア．正しい
イ．誤っている

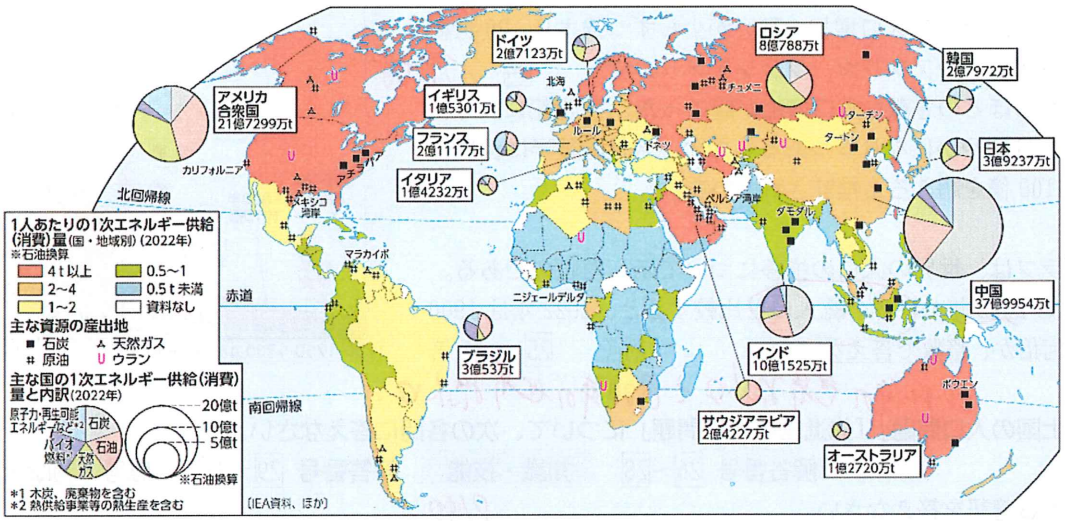

Ａ．１人あたりの１次エネルギー供給（消費）量が特に多いのは、南アジアやアフリカの国々である。

P.150　（　15　）

Ｂ．国の１次エネルギー供給（消費）量において、中国やインドは石炭が占める割合が最も高いが、ロシアでは天然ガスが~~最も多い~~。

P.150　（　16　）

Ｃ．原子力燃料であるウランは、ペルシア湾岸や北海、ニジェールデルタなどで集中して産出されている。

P.150　（　17　）

〔２〕20 世紀初頭より原油資源をめぐって、採掘や精製、製品化などの権益を握ってきた先進国の巨大企業のことを何というか答えなさい。

P.150　（　18　）

〔３〕〔２〕に対して不満をもった産油国で高まった、自国の資源を経済的な自立や発展に結びつけようとする動きを何というか答えなさい。

P.150　（　19　）

〔４〕〔３〕の動きとして、産油国の利益を守るために石油の生産量や価格の調整をする国際機構として、1960 年に結成された組織を何というか答えなさい。

P.150　（　20　）

〔５〕太陽光や風力、地熱、木くずや家畜の糞尿を利用したバイオマスなど、枯渇する心配がなく永続的に利用できるエネルギーのことを何というか答えなさい。

P.151　（　21　）

〔６〕右の地図と下のグラフは、ブラジルのバイオエタノールの生産に関する資料である。さとうきびの生産量が増えた要因と土地利用の変化を述べた次の文の空欄を、下の語群の語句を用いて 50 字以内で埋めなさい。

原油価格の高騰によりガソリンの代替エネルギーとして、バイオエタノールが注目され、その生産量が急増した。そのため、バイオエタノールの（　22　）といった土地利用の変化が起こった。

P.152

〈語群〉
さとうきび農園
コーヒー農園
原料
エタノール工場

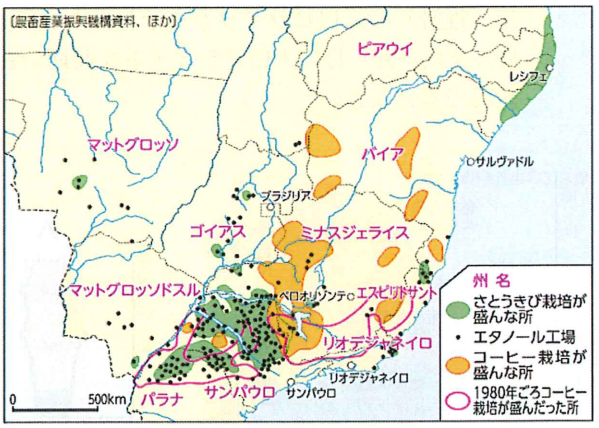

ブラジルにおけるバイオエタノールの生産地とコーヒーの栽培地

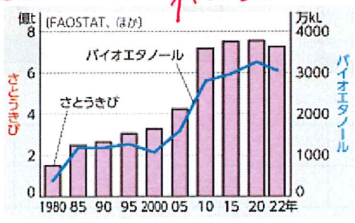

ブラジルのさとうきびとバイオエタノールの生産量の推移

4.「人口問題」についての問題です。

問1「世界の人口」について、次の各問に答えなさい。

解答番号 23～25　知識・技能

〔1〕世界の人口増加について、空欄に入る適語を答えなさい。ただし、23は、10の倍数の整数で答えなさい。

2023年時点で、地球上には（　23　）億を超える人々が生活している。世界の人口は、17世紀ごろまではゆっくりと増加してきた。18世紀に人口増加の勢いが少しずつ強まり、20世紀後半にはアジアやアフリカ、ラテンアメリカで（　24　）とよばれるほどの急激な人口増加が起こった。21世紀に入り、人口増加は緩やかになりつつあるものの、今世紀後半に世界の人口は100億を超えると推計されている。

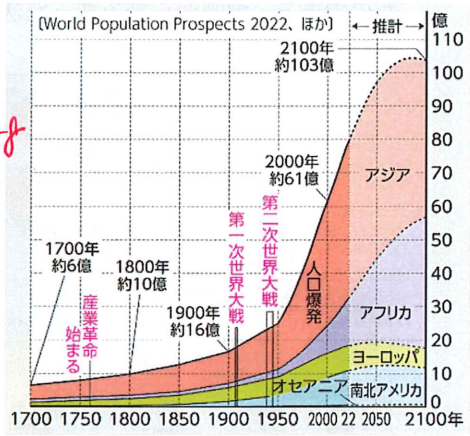

〔2〕右のグラフは、世界の人口の推移について示したものである。1900年と2022年の世界の総人口を比較すると、2022年は1900年の約何倍か、整数で答えなさい。　約（　25　）倍

問2「発展途上国の人口問題」「先進国の人口問題」について、次の各問に答えなさい。

解答番号 26～28　知識・技能　解答番号 29～33　思考・判断・表現

〔1〕空欄に入る適語を答えなさい。

発展途上国、とりわけアフリカ諸国では、1人の女性が一生の間に産む子の平均値である（　26　）が高い。背景には、医療や情報が不足しているために、妊娠・出産に伴う女性の死亡率や乳幼児死亡率が高いことや、幼いころからの労働により（　27　）（日常生活の簡単な内容についての読み書きができる割合）が低いことなども関係している。インドでは、経済発展よりも早いペースで進む人口増加を抑制するために、1960年代から（　28　）の普及に努めてきた。インドの出生率は、27の高い南部では低く、27の低い北部では高い。

〔2〕右のグラフは、主な国の老年人口の割合の推移を示したものである。このグラフの国のなかで、2020年時点の老年人口の割合が最も高い国はどこか、答えなさい。

（　29　）

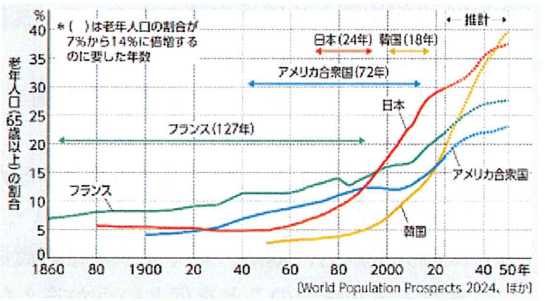

〔3〕下のグラフは日本の年齢別人口の推移を表したもので、A～Dは、日本の1930年、1960年、2020年、2065年（推計）の人口ピラミッドを示したものである。AとCにみられる人口ピラミッドの型の名称を答えなさい。また、A～Dの人口ピラミッドを時期の古い順から正しく並べたものを下のア～エのうちから一つ選び、記号で答えなさい。

A（　30　）　C（　31　）　並び順（　32　）

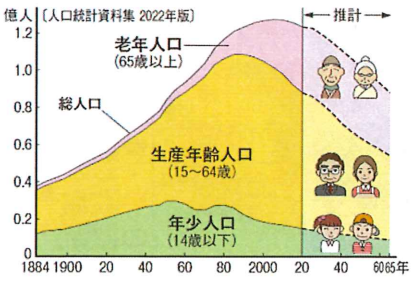

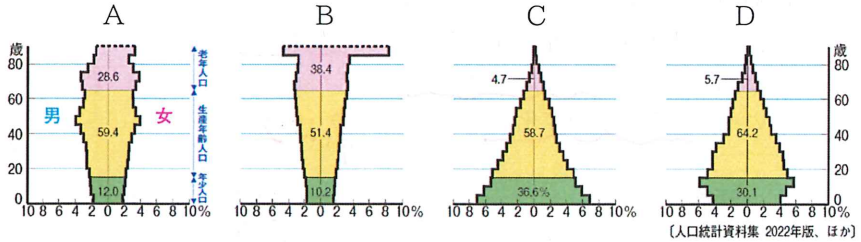

ア	イ	ウ	エ
B→A→D→C	D→C→B→A	C→D→A→B	A→D→C→B

〔4〕日本の年齢別人口の推移のグラフと人口ピラミッドから、2065 年段階で起こりうる問題として適当でないものを下のア～エのうちから一つ選び、記号で答えなさい。 （ 33 ）

ア．生産年齢人口の割合の減少により、労働力の不足が生じるおそれがある。

イ．年少人口の急激な増加により、学校や保育施設が不足するおそれがある。

ウ．老年人口の割合の高まりにより、年金などの社会保障のしくみを維持できなくなるおそれがある。

エ．人口全体の減少とともに国内の消費規模が縮小し、産業が衰退するおそれがある。

5．「食料問題」についての問題です。次の各問に答えなさい。

解答番号 34～38　思考・判断・表現

〔1〕空欄に入る適語を答えなさい。

世界の食料の需要と供給には地域的な偏りが大きい。先進国では食料に恵まれ、食べ物に不自由しない（ 34 ）が日常的になっているのに対して、一部の発展途上国では食料不足により多くの人々が（ 35 ）に直面している。 35 が発生する要因はさまざまである。アフリカでは、外貨を獲得するために、コーヒーやカカオといった輸出向けの（ 36 ）の生産が重視され、自国用の穀物生産には十分に力が入れられてこなかったという背景もある。

〔2〕〔1〕35 について述べた文として正しいものを、次のア、イから選び、記号で答えなさい。 （ 37 ）

ア．食料に恵まれ食べ物に不自由しないが、カロリーの過剰摂取や栄養の偏りで、生活習慣病が発症しやすく、また食品の廃棄などの課題が生じている。

イ．長期間にわたり十分な食料を得られずに栄養不足となり、体調の維持や生存が困難になっている。

〔3〕下の地図は、世界の穀物自給率と 1ha あたりの穀物収量を示したものである。地図から読み取れることについて述べた文として適当でないものを、次のア～エのうちから一つ選び、記号で答えなさい。

（ 38 ）

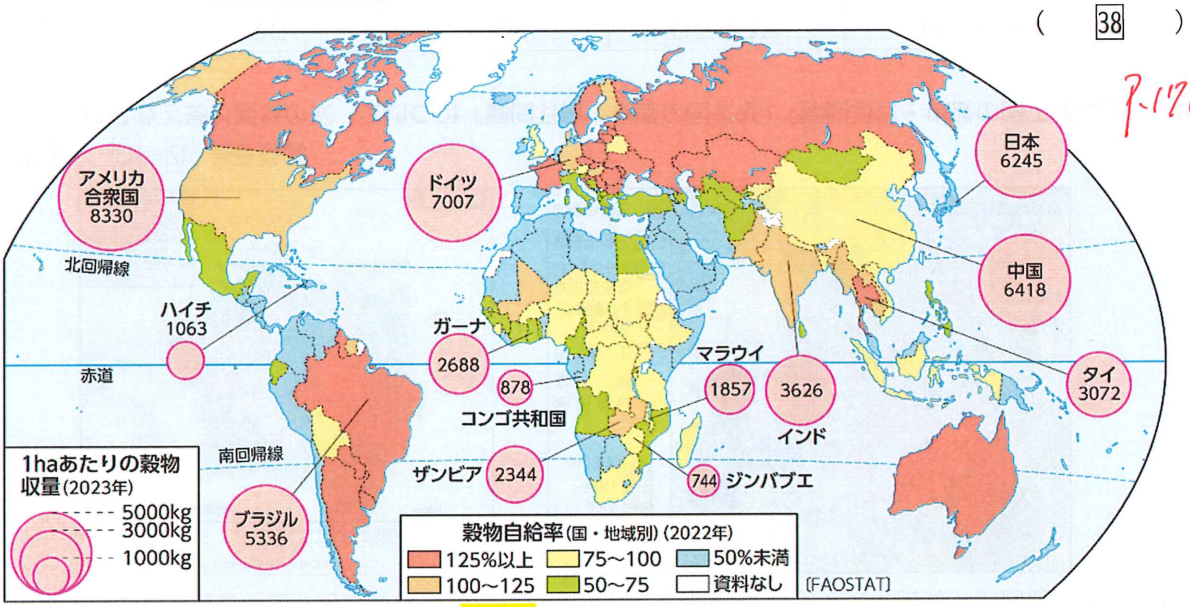

ア．日本と中国は 1ha あたりの穀物収量は同程度だが、穀物自給率は中国の方が高い。

イ．アメリカ合衆国もブラジルも穀物自給率は 100%以上であるが、1ha あたりの穀物収量は、1.5 倍以上アメリカ合衆国の方が多い。

ウ．タイは 1ha あたりの穀物収量は日本の約半分であるが、穀物自給率は 100%を超えている。

エ．ザンビアの 1ha あたりの穀物収量はドイツの半分以下で、穀物自給率も 50%に達していない。

6.「都市・居住問題」についての問題です。

問1「世界の都市の発達」について、次の各問に答えなさい。

解答番号 39~41　思考・判断・表現

〔1〕産業や経済の機能が一極集中し、雇用機会や文化的生活を求める人々を周辺地域から引き寄せ、国内のほかの都市よりも人口規模が突出して大きい都市を何というか、答えなさい。 P.173　（ 39 ）

〔2〕右の地図は、世界の大都市と主な国の都市人口率を示したものである。日本と比べて、都市人口率の変化が小さい国を、次のア～エから一つ選び、記号で答えなさい。　（ 40 ）

ア．コロンビア
イ．韓国
ウ．イギリス
エ．インドネシア

P.172

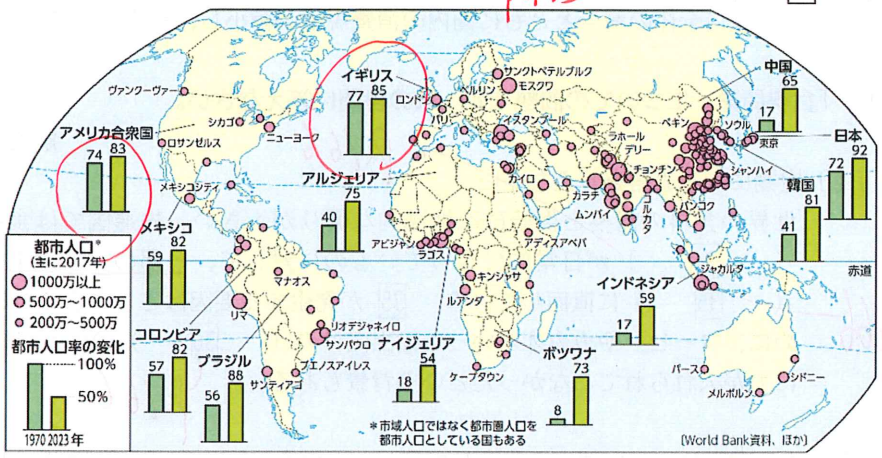

〔3〕次の文A～Cは、右上の地図について読み取ったものである。誤って読み取った文をすべて選んでいる組み合わせはどれか、下のア～エのうちから一つ選び、記号で答えなさい。 P.172　（ 41 ）

A：世界の大都市は北半球の中緯度地域や南アメリカ、オーストラリアの内陸部に集中して分布している。
B：アフリカやアジアでは、1970 年から 2023 年の都市人口の上昇率が大きい傾向にある。（？）
C：国の面積が大きければ大きいほど、大都市の数も多い。（×）

	ア	イ	ウ	エ
誤っている文	AとBとC	AとB	BとC	AとC

問2「発展途上国の都市・居住問題」「先進国の都市・居住問題」について、次の各問に答えなさい。

解答番号 42~43　知識・技能

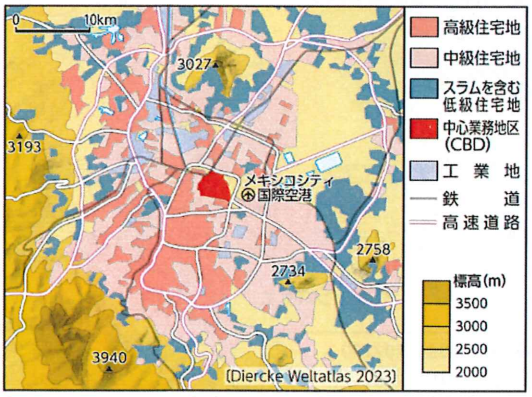

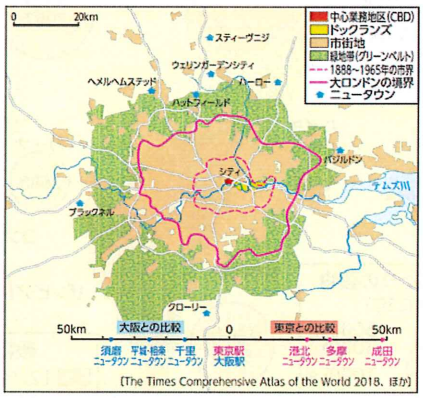

〔1〕左上の地図はメキシコシティの住宅地区を示しています。メキシコシティで、スラムを含む低級住宅地が広がるのはどのような場所か、文中の空欄に入る適語を選択肢ア～ウのうちから 1 つ選び、記号で答えなさい。
「スラムを含む低級住宅地は、（ 42 ）に広がっている傾向がある」 P.175

ア．盆地の中央の平坦な土地　　イ．郊外の山の傾斜地　　ウ．標高 4000mの山頂付近

〔2〕右上の地図はロンドン首都圏の地図を示しています。ロンドンでは、市街地の周囲に設けられた緑地帯の外側に何が建設されたか、地図を参考にして答えなさい。 P.176　（ 43 ）

7.「地球的課題の解決に向けて」について、次の問いに答えなさい。

解答番号 44　知識・技能

先進国の政府が、発展途上国の経済開発や福祉の向上のために行う援助のことを何というか答えなさい。 P.178　（ 44 ）