報告課題　日本史探究　日本の再建・経済の発展・経済大国とグローバル化　第９回

◎教科書「高等学校 日本史探究」p. 250～281 を読んで，次の課題に取り組みましょう。

1．「日本の再建」について，次の各問に答えなさい。

(1)　次の文章を読み，下の①～⑩の問いに答えなさい。【知識・技能】解答番号 1 ～ 13

日本の敗戦により，植民地だった台湾は（ 1 ）に返還され，朝鮮半島は北部を（ 2 ），南部を（ 3 ）が占領した。そして，日本は連合国に占領されることになった。連合国は対日占領政策を決めるために，極東委員会を設置したが，占領政策は 3 が主導した。①来日した 3 人の最高司令官の下に，②GHQがおかれ，③GHQが日本政府に命令を出して政策を実施する形態がとられた。

GHQは、政治犯を釈放するとともに，特別高等警察や（ 4 ）法を廃止して，思想・信条・政治活動の自由を保障した。さらに，20 万人もの各界指導者の（ 5 ）などを断行し，④裁判による戦争犯罪人の糾明もおこなわれた。また，GHQは⑤首相に対して，⑥五大改革の指令を発した。

憲法改正の検討もはじまり，日本政府や各政党などが憲法草案を作成した。日本政府の憲法草案は，GHQの民主化の方針にそわないものであったため，GHQが作成した憲法草案が日本政府に示された。それをもとに，日本政府が改正草案を作成し，帝国議会での審議・修正を経て，1946 年 11 月３日，⑦日本国憲法が公布された。

①　文中の空欄 1 ～ 3 に当てはまる国を，下の語群から一つずつ選び，記号で答えなさい。解答番号 1 ～ 3
語群：(ア) アメリカ　(イ) イギリス　(ウ) ソ連　(エ) 中国　(オ) フランス

②　文中の空欄 4 ～ 5 に当てはまる語を，下の語群から一つずつ選び，記号で答えなさい。解答番号 4 ～ 5
語群：(ア) 治安警察　(イ) 治安維持　(ウ) 公職追放　(エ) レッド=パージ　(オ) 復員

③　下線部①の人物の名を答えなさい。解答番号 6

④　下線部②は日本語で何というか。13 字で答えなさい。解答番号 7

⑤　下線部③のような統治の形態を「〇〇統治」という。この〇〇に当てはまる語を答えなさい。解答番号 8

⑥　下線部④の裁判を何というか。８字で答えなさい。解答番号 9

⑦　下線部⑤の首相の名を答えなさい。解答番号 10

⑧　下線部⑥の内容として，正しくないものを下の(ア)～(オ)より二つ選び，記号で答えなさい。
解答番号 11-1 ・ 11-2

(ア) 女性の解放　(イ) 工場法の制定　(ウ) 教育の民主化
(エ) 圧政的な諸制度の廃止　(オ) 経済の独占化

⑨　下線部⑦に関する以下の文章の正誤の組み合わせとして正しいものを，下の(ア)～(エ)より一つ選び，記号で答えなさい。解答番号 12

(X) 天皇を最高の統治者とし，天皇が議会の招集などの権限をもつとした。
(Y) 戦争を放棄し，陸・海・空軍その他の戦力を保持しないとした。
(ア) X－正　Y－正　(イ) X－正　Y－誤　(ウ) X－誤　Y－正　(エ) X－誤　Y－誤

⑩　この時期の日本の経済についての説明として，正しいものを下の(ア)～(エ)より二つ選び，記号で答えなさい。解答番号 13-1 ・ 13-2

(ア) 極度の物不足のなか，日本銀行券の発行が急増したため，猛烈なデフレーションがおこった。
(イ) 人々は食料や生活必需品を求めて闇市などに殺到した。
(ウ) 幣原喜重郎内閣は，支払い猶予令を発して，国民が引き出せる預金を制限した。
(エ) 片山哲内閣は，第１次吉田茂内閣に続き，資金などを重点的に割り当てる傾斜生産方式を採用した。

2．「冷戦と講和」について，次の各問に答えなさい。

(1)　次の地図と文章を見て，下の①～⑤の問いに答えなさい。【思考・判断・表現】解答番号 14 ～ 21

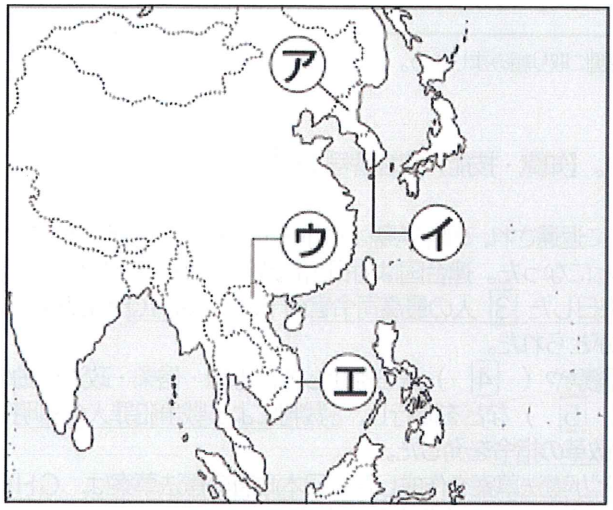

第二次世界大戦後，朝鮮半島は北緯 38 度線を境に，南はアメリカ軍，北はソ連軍の占領下におかれたが，1948 年に南は（ 14 ），北は（ 15 ）に分かれて独立した。ところが 1950 年，15 が北緯 38 度線を突破して 14 に侵入し，（ 16 ）がはじまった。アメリカ軍を中心とする①国連軍が 14 を，ソ連と中国が 15 をそれぞれ支援して，1953 年 7 月の休戦協定調印まではげしい戦闘が繰り広げられた。

この間に日本は，国連軍の補給と出撃のための基地となった。出撃した在日アメリカ軍にかわって日本を防衛するため，GHQの指令で（ 17 ）が設置され，再軍備の出発点となった。一方，低迷していた②日本経済は，アメリカ軍からの発注を得て，急速に息をふきかえした。

①　文中の空欄 14 ～ 17 に当てはまる語を，下の語群から一つずつ選び，記号で答えなさい。解答番号 14 ～ 17

語群：（ア）湾岸戦争　（イ）警察予備隊　（ウ）朝鮮戦争　（エ）レッド=パージ　（オ）陸・海・空軍
（カ）大韓民国　（キ）朝鮮民主主義人民共和国　（ク）中華民国

p.258 ～ p.259

②　上の地図の説明として，正しいものを下の(ア)～(エ)より一つ選び，記号で答えなさい。解答番号 18

（ア）文章中の 15 は地図中のアであり，日本とは 1965 年に国交を樹立した。
（イ）文章中の 15 は地図中のアであり，日本とは現在も国交を樹立していない。
（ウ）文章中の 15 は地図中のウであり，日本とは 1965 年に国交を樹立した。
（エ）文章中の 15 は地図中のウであり，日本とは現在も国交を樹立していない。

p.268

③　下線部①に関する以下の文章の正誤の組み合わせとして正しいものを，下の(ア)～(エ)より一つ選び，記号で答えなさい。解答番号 19

（X）国連は略称であり，正式名称は国際連盟である。
（Y）国際平和と協力のための機関として，1945 年に発足した。

p.258

（ア）X－正　Y－正　（イ）X－正　Y－誤　（ウ）X－誤　Y－正　（エ）X－誤　Y－誤

④　下線部②について，これを「○○景気」という。この○○に当てはまる語を答えなさい。解答番号 20

p.259

⑤　下線部②に関する以下の文章の正誤の組み合わせとして正しいものを，下の(ア)～(エ)より一つ選び，記号で答えなさい。解答番号 21

（X）麻袋などの繊維製品や，トラックなどの金属製品の需要が多かった。
（Y）工業生産や実質国民総生産は上昇したが，戦前の水準までは及ばなかった。

p.258～259

（ア）X－正　Y－正　（イ）X－正　Y－誤　（ウ）X－誤　Y－正　（エ）X－誤　Y－誤

(?)

(2) 次の地図と文章を見て，下の①～⑥の問いに答えなさい。【思考・判断・表現】解答番号 22 ～ 27

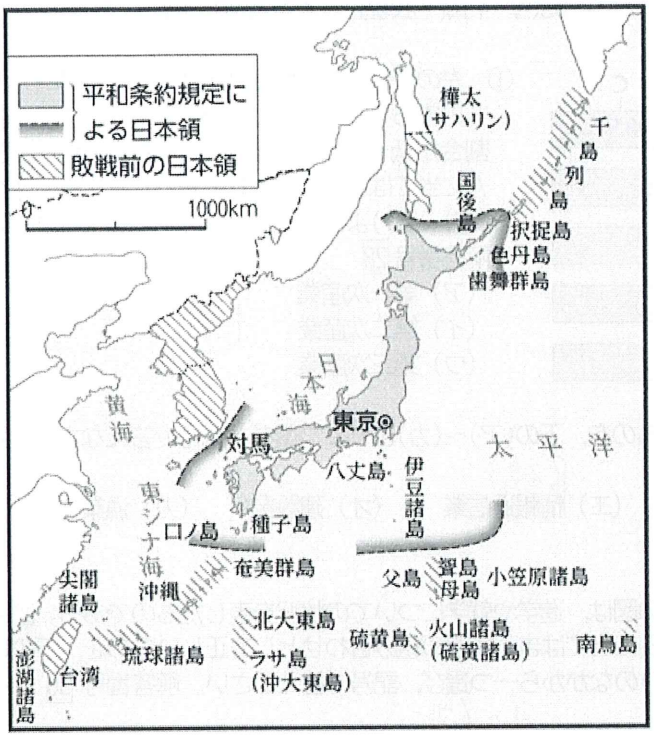

① 上の地図は，1951 年に開かれた，第二次世界大戦後の日本と連合国との講和会議で結ばれた講和条約による日本領を示している。この条約を何というか，答えなさい。解答番号 22

② ①の条約を結んだ時の首相は誰か，答えなさい。解答番号 23

③ ②の内閣が選択した，資本主義国との講和である単独講和に対して，ソ連や中国など社会主義国も含めたすべての関係国と講和を結ぶことを何というか，答えなさい。解答番号 24

④ ①の条約について述べた文章として，誤っているものを下の(ア)～(エ)より一つ選び，記号で答えなさい。解答番号 25

(ア) 日本と 48 カ国との間で結ばれた。
(イ) 中国はこの会議には出席したが，この条約には調印はしなかった。
(ウ) 日本はこの条約で朝鮮の独立を認めた。
(エ) 日本はこの条約で台湾・南樺太・千島列島を放棄した。

⑤ ①の条約と同じ日に調印した条約で，独立後も日本にアメリカ軍が駐留することを取り決めたものは何か，答えなさい。解答番号 26

⑥ 地図中の斜線で示されている地域のなかには，のちに日本に復帰したものもある。最後に復帰したのは沖縄であるが，次の文章ａ～ｃについて，時代の順番に並び替えたものとして正しい選択肢を，下の(ア)～(カ)より一つ選び，記号で答えなさい。解答番号 27

ａ：内戦が続いていたベトナムで，アメリカが北ベトナムへの爆撃（北爆）を開始し軍事介入した。
ｂ：沖縄の日本復帰が実現した。
ｃ：第 18 回のオリンピックが東京で開催された。
(ア) ａ→ｂ→ｃ (イ) ｂ→ｃ→ａ (ウ) ｃ→ａ→ｂ
(エ) ａ→ｃ→ｂ (オ) ｂ→ａ→ｃ (カ) ｃ→ｂ→ａ

3．「高度経済成長」について，次の各問に答えなさい。

(1)　次の資料を見て，下の①～⑤の問いに答えなさい。【思考・判断・表現】解答番号 28 ～ 33



①　左の図は，産業別就業者数割合の推移を示したものである。1950年から1990年にかけて，最も割合が低くなっているのは，図中のAであるが，Aに当てはまるものとして正しいものを，下の(ア)～(ウ)より一つ選び，記号で答えなさい。解答番号 28

(ア) 第一次産業
(イ) 第二次産業
(ウ) 第三次産業

p.262

②　①の産業に当てはまるものとして，正しいものを，下の(ア)～(カ)より二つ選び，記号で答えなさい。解答番号 29-1 ・ 29-2

(ア) 林業　(イ) 工業　(ウ) 金融業　(エ) 情報通信業　(オ) 建設業　(カ) 漁業

p.262

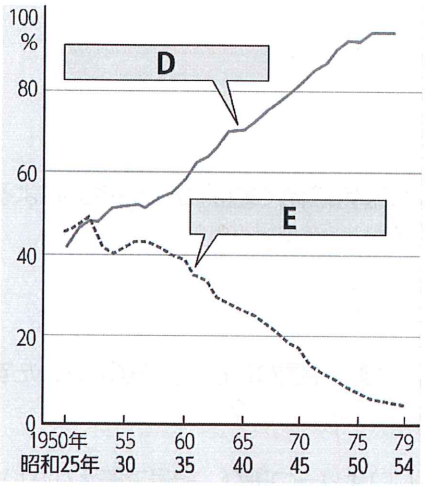

③　左の図は，進学や就学についての状況を表したものである。図中のD・Eに当てはまる説明の組み合わせとして正しいものを，下の(ア)～(エ)のなかから一つ選び，記号で答えなさい。解答番号 30

p.262

(ア)	D－大学への進学率	E－高等学校からの就職率
(イ)	D－大学への進学率	E－中学校からの就職率
(ウ)	D－高等学校への進学率	E－高等学校からの就職率
(エ)	D－高等学校への進学率	E－中学校からの就職率

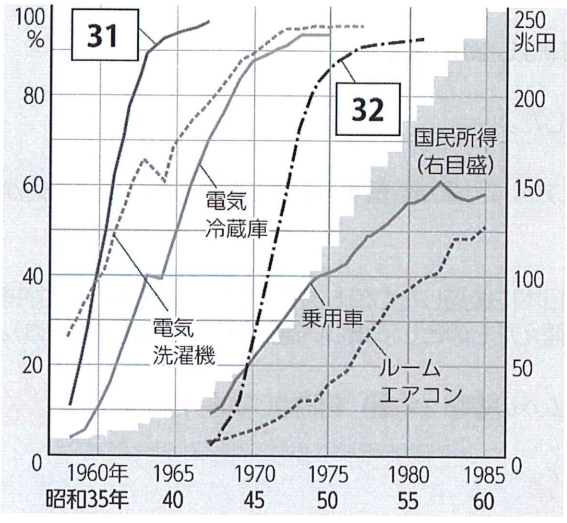

④　左の図中の 31 ・ 32 に当てはまる耐久消費財は何か，下の(ア)～(エ)のなかから一つずつ選び，記号で答えなさい。解答番号 31 ・ 32

p.264

(ア) ラジオ　(イ) テレビ（白黒）
(ウ) カラーテレビ　(エ) パソコン

⑤　左の図のように耐久消費財が普及した時期におこった次のa～cの出来事について，時代の順番に並び替えたものとして正しい選択肢を，下の(ア)～(カ)より一つ選び，記号で答えなさい。解答番号 33

a：農業経営の自立を目標に農業基本法が制定された。(1961)
b：公害対策基本法が制定された。(1967)
c：日本万国博覧会が大阪で開催された。(1970)

(ア) a→b→c　(イ) b→c→a
(ウ) c→a→b　(エ) a→c→b
(オ) b→a→c　(カ) c→b→a

4．「石油危機」について，次の各問に答えなさい。

(1)　次の文章を読み，下の①～⑤の問いに答えなさい。【知識・技能】解答番号 34 ～ 38

ベトナム戦争で大きな痛手を受けたアメリカは，軍事と経済の両面で圧倒的な地位を維持することができなくなった。アメリカの（　34　）大統領は，そうした事態に対応するため，1971 年７月，長年対立していた中国への訪問を突然発表した。それを受けて，①田中角栄内閣は，1972 年に日中共同声明に調印し，中華人民共和国との国交を正常化した。

ばく大な軍事支出や貿易赤字によってアメリカの国際収支が悪化したために，34 大統領は 1971 年８月に新経済政策を発表して，金とドルとの交換を停止した。これによって，日本も（　35　）の固定相場制から，②1973 年に変動為替相場制へ移行した。

さらに，1973 年にアラブ諸国とイスラエルとの間に戦争がはじまると，アラブ諸国は原油の価格を引き上げ，アメリカをはじめイスラエルを支援する諸国に対する原油輸出を制限した。資源を海外に依存する日本も，原油の輸入が激減して価格が高騰し，③経済全体が大きな打撃を受けた（石油危機）。

①　文中の空欄 34 に当てはまる人物を，下の語群から一つ選び，記号で答えなさい。解答番号 34
語群：(ア) ケネディ　(イ) ニクソン　(ウ) レーガン　(エ) クリントン　(オ) オバマ

P.270

②　文中の空欄 35 に当てはまる相場を，下の語群から一つ選び，記号で答えなさい。解答番号 35
語群：(ア) 1 ドル=1 円　(イ) 1 ドル=130 円　(ウ) 1 ドル=360 円　(エ) 1 ドル=450 円

P.270

③　下線部①の首相について述べた文の正誤の組み合わせとして正しいものを，下の(ア)～(エ)より一つ選び，記号で答えなさい。解答番号 36
(X)「戦後政治の総決算」を掲げ，国鉄の民営化などを実現した。
(Y)「所得倍増」を掲げ，経済成長政策を進めた。
(ア)　X―正　Y―正　(イ)　X―正　Y―誤　(ウ)　X―誤　Y―正　(エ)　X―誤　Y―誤

P.270

④　下線部②について，この結果，（　A　）となり，日本の（　B　）は伸び悩んだ。A・B に当てはまる語の組み合わせとして正しいものを，下の(ア)～(エ)のなかから一つ選び，記号で答えなさい。解答番号 37
(ア) A－円高　B－輸出
(イ) A－円高　B－輸入
(ウ) A－円安　B－輸出
(エ) A－円安　B－輸入

P.270

⑤　下線部③について述べた文章として，正しいものを下の(ア)～(ウ)より一つ選び，記号で答えなさい。
解答番号 38
(ア) これを受けて 1974 年の経済成長率はマイナスとなり，高度経済成長は終わりをむかえた。
(イ) これを受けて国際協調につとめる第１回先進国首脳会議が 1975 年に開かれ，50 カ国以上が参加した。
(ウ) これを受けて企業は省エネルギー化をすすめ，コンピュータなどの電子機器を制限し，人員を増加させる対応をとった。

P.270

5.「1990 年以降の出来事」について，次の各問に答えなさい。

(1) 次の年表を見て，下の①～②の問いに答えなさい。【知識・技能】解答番号 39～40

年	出来事
1994	（ A ）内閣の退陣，羽田孜内閣が連立政権を引き継ぐ
	（ B ）内閣成立（3党連立政権）
C	
2012	第2次安倍晋三内閣成立

① 年表中の空欄A・Bに当てはまる首相の組み合わせとして正しいものを，下の(ア)～(エ)のなかから一つ選び，記号で答えなさい。解答番号 39

(ア) A－竹下登　　B－宮沢喜一
(イ) A－宮沢喜一　　B－細川護熙
(ウ) A－細川護熙　　B－村山富市
(エ) A－村山富市　　B－森喜朗

② 年表中のCの時期の出来事について，時代の古い順に並べたものとして正しい選択肢を，下の(ア)～(カ)より一つ選び，記号で答えなさい。解答番号 40

a：民主党への政権交代がおこり，鳩山由紀夫内閣が成立した。
b：小泉純一郎内閣が成立し，構造改革が急速に進められた。
c：自由民主党による単独政権が復活し，第2次橋本龍太郎内閣が成立した。

(ア) a→b→c　(イ) b→c→a　(ウ) c→a→b
(エ) a→c→b　(オ) b→a→c　(カ) c→b→a