# 報告課題　歴史総合

第Ⅲ部 第９章 グローバル化する世界
第１０章 現代の課題

第６回

◎教科書『歴史総合 近代から現代へ 改訂版』p.214～234 を読んで、次の課題に取り組みましょう。

**1. 教科書の該当ページを参考に、各問いに答えなさい。**教科書 p.214～227【知識・技能】解答番号 1～8

**問題 1 以下の問いに答えなさい。**教科書 p.214 解答番号 1

アメリカや日本などは、1980 年のモスクワ=オリンピックをボイコットした。緊張緩和（デタント）は終わりを告げ、東西関係は再び冷え込んだ。この年の選挙で「強いアメリカ」の必要性を訴えて当選したアメリカ大統領を何というか。

**問題 2 以下の文の空欄に入る語句を答えなさい。**教科書 p.214 解答番号 2

1986 年には、（　　）原子力発電所（現、ウクライナ）で爆発事故がおこった。

**問題3 以下の文の空欄に入る語句を答えなさい。**教科書 p.216 解答番号 3

宗教学者ホメイニが帰国して、1979 年にイスラームの教えにもとづく（　　）共和国を打ちたてた。

**問題4 以下の問いに答えなさい。**教科書 p.216 解答番号 4

1991 年 1 月、アメリカを中心とする多国籍軍がイラクを攻撃して、短期間でクウェートを解放した戦争を何というか。

**問題 5 以下の文の空欄に入るものを、ア～エから選びなさい。**教科書 p.220 解答番号 5

カンボジアでは、（　　）が指導する民主カンプチアが中国の支援を受けて 1975 年に政権を握った。

ア.ネルー　イ.マルコス　ウ. スハルト　エ. ポル=ポト

**問題 6 以下の文の空欄に入るものを、ア～エから選びなさい。**教科書 p.222 解答番号 6

中国は対外的には開放路線を継続し、1997 年にはイギリスからの（　　）返還などの成果を得た。

ア.香港　イ.韓国　ウ.台湾　エ.上海

**問題 7 以下の文の空欄に入るものを、ア～エから選びなさい。**教科書 p.223 解答番号 7

2001 年 9 月 11 日にアメリカ本土で（　　）がおこると、アメリカのブッシュ政権はただちに反撃に出た。

ア.アラブの春　イ.イラク戦争　ウ. 同時多発テロ事件　エ.リーマン=ショック

**問題 8 以下の文の空欄に入るものを、ア～エから選びなさい。**教科書 p.227 解答番号 8

日本でも自衛隊の海外派遣をめぐって意見が対立したが、1992 年に宮沢喜一内閣のもとで（　　）が成立し、自衛隊の海外派遣が可能となった。

ア. 安全保障関連法案　イ. PKO 協力法　ウ.政府開発援助　エ. 日米防衛協力指針

**2. 各文章を完成させなさい。**教科書 p.215～231 解答番号 9～26

**新思考外交** 教科書 p.215

ゴルバチョフは、アメリカとの軍備拡張競争の負担を軽減することをめざし、「（ 9 ）」を掲げて、アメリカとの抜本的な関係改善に乗り出した。1985 年以降、ゴルバチョフはレーガンと会談を重ね、1988年にアフガニスタンからのソ連軍の撤退も決めた。さらにゴルバチョフは、東ヨーロッパ支配を終わらせ、ソ連軍駐留費などの負担を減らすことも決意した。東ヨーロッパ諸国は（ 10 ）という姿勢をゴルバチョフが表明すると、各国では改革運動が始まった。当初は各国の共産主義政党の改革派が主導権をとったが、やがて体制の転換を求める国民の声が圧倒的となり、1989 年には共産主義政党の一党支配体制の放棄と、（ 11 ）が急速に進んだ。ポーランドでは自主管理労働組合「連帯」が選挙で躍進して、東ヨーロッパ初の非共産党系政権を誕生させた。東ドイツでは、東西を隔てていた「ベルリンの壁」が民衆の手によって破壊された。

問題 1　空欄 9 に入る語句を答えなさい。【知識・技能】解答番号 9

問題 2　空欄 10・11 に入るものを、ア～ウからそれぞれ選びなさい。【思考・判断・表現】解答番号 10・11
ア. 資本主義から社会主義への転換　イ. 社会主義から資本主義への転換　ウ. それぞれが望む道を進めばよい

ソ連崩壊　教科書 p.217

ゴルバチョフは内政面では「（ 12 ）」をスローガンにして、社会主義体制の抜本的な改革に着手した。企業に経営上の自主性を与えるなど、資本主義を部分的に導入することによって、（ 13 ）がはかられた。共産党は改革に消極的であったため、ゴルバチョフは「グラスノスチ（情報公開）」による（ 14 ）を掲げて、広く国民のあいだに改革に向けた議論をおこすことをめざし、同時に共産党とは別の組織づくりを進めた。そして 1990 年には複数政党制の導入が決まった。さらに、ソ連大統領というポストも新設され、ゴルバチョフが就任した。しかし、資本主義を部分的に導入することで社会主義を刷新しようとするゴルバチョフのねらいは、望ましい成果をあげられなかった。むしろ、計画経済のもとで非効率ながらも機能していた流通に混乱が生じ、極端な物不足が発生した。さらに、炭鉱労働者などのストライキも頻発し、経済の混乱に拍車をかけた。国民のあいだでは（ 15 ）を求める声が高まっていった。

問題 3　空欄 12 に入る語句をカタカナで答えなさい。【知識・技能】解答番号 12

問題 4　空欄 13～15 に入るものを、ア～ウからそれぞれ選びなさい。【思考・判断・表現】解答番号 13～15
ア. 言論の自由化　イ. 経済の活性化　ウ. 社会主義の放棄と資本主義への転換

ラテンアメリカ　教科書 p.220

（ 16 ）開発途上国では、民主化を求める声が高まり、開発独裁政権が倒されていった。ラテンアメリカ諸国では、開発独裁の過程で、（ 17 ）が増大したが、石油危機とそれにともなう金融危機によって経済は大きな打撃を受け、債務返済もとどこおった。工業化のもとで成長していた都市中間層は、（ 18 ）を強め、1980 年代を中心に軍事独裁政権が倒され、民政移管がおこなわれた。アルゼンチンでは、1982 年にフォークランド（マルビナス）諸島の領有をめぐってイギリスと（ 19 ）がおこり、敗れた軍事政権が翌年に倒れた。ブラジルでは 1964 年から軍事政権が続いていたが、1985 年に民政移管が決定された。

問題 5　空欄 16～18 に入るものを、ア～ウからそれぞれ選びなさい。【思考・判断・表現】解答番号 16～18
ア. 経済情勢が悪化するなかで独裁体制への批判　イ. 工業化が進み、中産階級が成長した
ウ. 先進国からの借金である累積債務

問題 6　空欄 19 に入る語句を答えなさい。【知識・技能】解答番号 19

21世紀の政治　教科書 p.229

2001 年 4 月、自民党の小泉純一郎が連立内閣を組織した。小泉内閣は新自由主義的な政策をとり、不良債権処理の抜本的な解決を掲げるとともに、（ 20 ）をめざして大胆な民営化と規制緩和を進めた。その結果、長い不況から脱したかにみえたが、福祉政策の後退、地方経済の疲弊をまねき、（ 21 ）が広がった。

2012 年 12 月の衆議院議員総選挙で民主党が大敗すると、自民党と公明党の連立政権が成立し、第 2 次安倍内閣が誕生した。安倍政権は、「（ 22 ）」をスローガンに掲げ、2015 年にはガイドラインを再改定して、自衛隊のアメリカ軍に対する後方支援の地理的限定を取り除いた。また、同年、これまでの憲法第 9 条の解釈を大きく変更し、（ 23 ）を行使できるよう、安全保障関連法案を強行採決し成立させた。

問題 7　空欄 20～22 に入るものを、ア～ウからそれぞれ選びなさい。【思考・判断・表現】解答番号 20～22
ア. 財政赤字の解消と景気の浮揚　イ. 戦後レジーム（戦後体制）からの脱却
ウ. 所得格差・地域格差

問題 8 空欄23に入る語句を答えなさい。【知識・技能】解答番号23

リーマン=ショック・ユーロ危機 教科書 p.230～231

2001 年、アメリカ合衆国では政府が低金利政策をとると、住宅への投資が活発化して住宅価格が上昇した。2004 年頃からは（ 24 ）（サブプライム=ローン）の供給が拡大し、グローバル化を背景にヨーロッパの銀行も24の供給に参加した。その後、住宅価格は下落に転じ、銀行は危機におちいった。さらに 2008 年 9 月 15 日、アメリカの大手投資銀行リーマン=ブラザーズが、24証券による巨額の負債で経営破綻した。巨大銀行の破綻は世界中に大きな衝撃を与え、アメリカ・ヨーロッパで銀行の破綻があいつぎ、株価は大暴落、世界は（ 25 ）した。

ヨーロッパ連合（EU）の通貨ユーロは、アメリカ合衆国のドルにつぐ主要な通貨の地位を得た。ユーロを導入するためには、物価の安定や財政の健全性、為替の安定性などの条件がある。ギリシアは 2001 年にユーロを導入したが、2009 年に政府が巨額の財政赤字を隠していたことが発覚した。ギリシア国債は暴落し、外国為替市場でユーロは下落した。EU はギリシアの経済支援を決定し、経済状況の悪化している国々に財政緊縮を求め、危機に対処しようとした。しかし、ユーロ危機はユーロの（ 26 ）を明らかにした。

問題 9 空欄24～26に入るものを、ア～ウからそれぞれ選びなさい。【思考・判断・表現】解答番号24～26

ア. 脆弱性を露呈するとともに、EU 内の経済的格差　イ. 世界恐慌以来の経済危機に直面

ウ. 低所得者層向けの住宅融資

3. 資料の読み取りに関する各問いに答えなさい。それぞれの問いで指示された資料は教科書をみながら解答すること。

【思考・判断・表現】解答番号 27～29

問題 1 p.215写真「東欧革命」に関連する文として適当なものを、ア～エから選びなさい。解答番号 27

ア.ルーマニア共産党本部前の広場で社会主義を主張する人物が国旗を掲げている。

イ.手前の人物は社会主義を示すマークを切り抜いた国旗を掲げている。

ウ.社会主義から資本主義への転換が進んだなかでルーマニアではドプチェクが復権した。

エ.ゴルバチョフとチャウシェスクがマルタ島沖で会談し、冷戦の終結が宣言された。

問題 2 p.222 写真「天安門広場に集まった人々」に関連する文として適当なものを、ア～エから選びなさい。

解答番号28

ア.中央にみえるのは、学生たちがつくった「民主の女神」像である。

イ.基本的人権の保障や共産党独裁の停止を求めたところ、軍が出動し、暴動を止めている。

ウ.南京の天安門広場を中心に広がった民主化を要求する運動の様子がみられる。

エ.中国政府はデモやハンガー=ストライキに対して、共産党独裁をやめ、市場経済化を推進した。

問題 3 p.224地図「パレスチナ自治区」、写真「イスラエルの築いた分離壁」に関連する文として適当なものを、ア～エから選びなさい。解答番号 29

ア.ヨルダン川東岸のパレスチナ自治区は細分化されている。

イ. ヨルダン川西岸のパレスチナ自治区は細分化されている。

ウ. イスラエルは占領した地域に入植地を建設したが、ユダヤ人移住者を受け入れなかった。

エ. イスラエルが自国の安全保障のために境界線に建設を開始した分離壁は、現在の平和の象徴である。

4. 次の資料に関する問いに答えなさい。教科書 p.231～232【思考・判断・表現】解答番号30

〔資料 1〕教科書 p.231



〔資料 2〕教科書 p.232

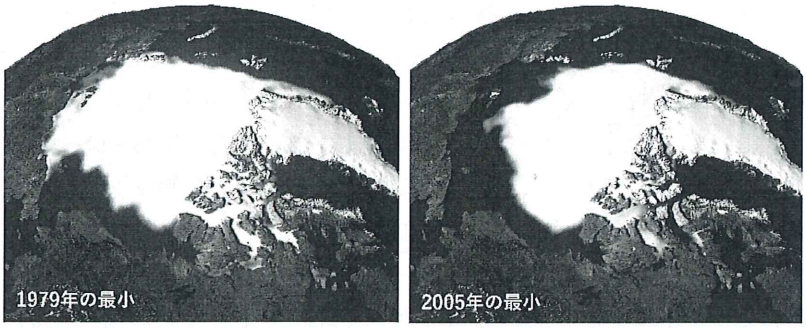


問題〔資料1〕〔資料2〕に関する文 A・B の正誤を判断し、適当なものをア～エから選びなさい。解答番号 30

A. レインボーフラッグは LGBT の尊厳と社会運動を象徴する旗といわれている。

B. 人間は世界を都合のよいかたちにつくりかえてきたが、近年の持続可能な開発の動きによって、海氷面積は再び増加してきている。

ア. A－正 B－正　イ. A－正 B－誤　ウ. A－誤 B－正　エ. A－誤 B－誤

5. 次の資料や会話文をもとに、以下の各問いに答えなさい。教科書 p.219～222、p.230～231 解答番号 31～45

単元の問い①「経済のグローバル化はどのように進展したのだろうか？」

みらい：冷戦後の世界では地域統合がさらに発展し、経済のグローバル化が進んだよね。

あすか：主要な地域統合をまとめてみよう。

| 名称 | 地域 | 特徴 |
|---|---|---|
| 31 | 34 | 社会主義勢力への対抗を目的に設立されたが、ベトナム戦争が終結すると経済分野での協力が中心になった。 |
| 32 | 35 | 広大な単一市場をもち、共通通貨を導入している。 |
| 33 | 36 | 加盟国は少ないが、経済大国が参加していることで輸出額は高い。 |

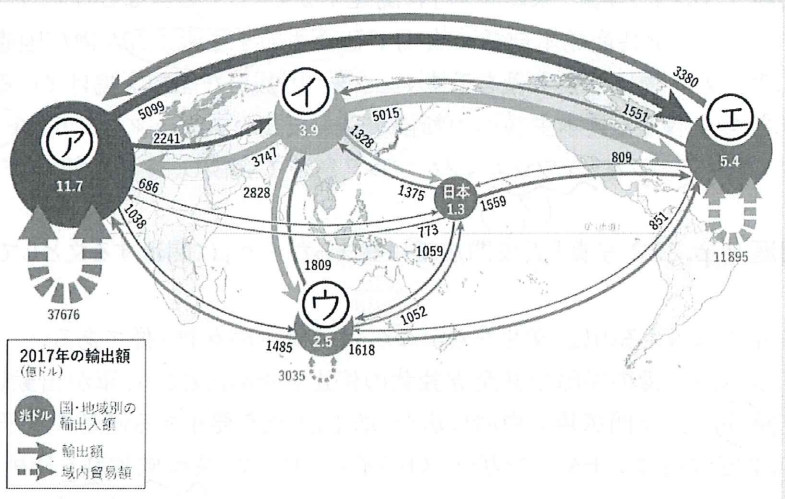


単元の問い②「開発途上国の民主化運動はどのように展開したのだろうか？」

あすか：工業化が進むと、中産階級が成長した開発途上国で民主化運動が高まったんだよね。

みらい：各国の民主化の動きを表にまとめてみよう。

| 国名 | 指導者 | 政策・民主化への動き |
|---|---|---|
| チリ | アジェンデ | 40 |
| 37 ※軍事政権によってビルマから改称 | 38 | 民主化運動を指導し、軍事政権に弾圧される。2016 年に誕生した文民政権で実質的な指導者となった。しかし、2021 年に再び軍に拘束された。 |
| 韓国 | 金大中 | 41 |
| 南アフリカ | 39 | 反アパルトヘイト運動を指導し、約 27 年間を獄中で過ごす。釈放後は黒人初の大統領となった。 |

あすか：あれ、この表に中国が入っていないよ。1980年代の中国でも「 42 」。
みらい：しかし独裁体制は変化しなかったため、「 43 」。政府はこれを武力で弾圧したんだ。
あすか：この時、中国は国際的に批判を浴びたよね。その後も一党独裁体制は続いているけど、ソ連解体後の90年代に中国で実現できたことは何だろう？
みらい：対外的には「 44 」。

問題1 空欄31～33に入る地域統合の名称をそれぞれアルファベットで答えなさい。【知識・技能】解答番号31～33

問題2 空欄34～36に入る地域を地図中のア～エからそれぞれ選びなさい。【知識・技能】解答番号34～36

問題3 空欄37～39に入る国名・人物名を答えなさい。【知識・技能】解答番号37～39

問題4 空欄40・41に入る文として適当なものを、以下のア～エからそれぞれ選びなさい。【思考・判断・表現】
解答番号40・41

ア.政権を受け継ぎ、独自の閉鎖的社会主義体制の維持をはかった。2000年には、建国以来初の南北首脳会談を実現した。
イ.民主化運動を指導し軍事政権下で逮捕されるが、釈放後は大統領に当選した。2000年には、建国以来初の南北首脳会談を実現した。
ウ.社会主義政権が樹立されたが、1973年に軍事クーデタがおき、軍事政権にかわった。その後1988年の国民投票によって民政移管が決定された。
エ.反米の姿勢を明確に示し、石油産業を国有化して社会保障を充実させる社会主義的な政策を進め、国民の支持を集めた。

問題5 空欄42～44に入る文として適当なものを、以下のア～カからそれぞれ選びなさい。【知識・技能】
解答番号42～44

ア.イギリスからの香港返還を実現したよね。返還に際しては、従来の法や制度を一定期間継続する「一国二制度」がとられたね
イ.アメリカ大統領のニクソンが訪中したよね。こののち国際連合の代表権が中華民国から中華人民共和国へと移ったね
ウ.鄧小平を中心として、市場経済化などを推進する改革開放路線が進められたよ
エ.毛沢東を中心として、旧来の社会制度を変革する文化大革命が展開されたよ
オ.学生や市民が中心となって、民主化運動がおこったよ
カ.共産党員や官僚が中心となって、民主化運動がおこったよ

問題6 生徒たちは、単元の問い①～②の内容や知識をさらに深めるために、新たな問いを設定し、考察の根拠として必要な資料を考えた。問いと資料の最も適切な組合せを、以下のア～カから選びなさい。【思考・判断・表現】
解答番号45

〔設定した問い〕
Ⅰ「旧東側陣営では、経済の自由化によって国内の格差が拡大したのか？」
Ⅱ「国家は、人種・宗教などの多様な人々を積極的に受け入れるべきか？」
〔その主題をさらに追究するための資料〕
①アメリカの移民政策の概要　②世界の人口ピラミッド　③PKO協力法の条文
④原油価格の推移　⑤アメリカの食料自給率の変化　⑥トランプ大統領の政策
ア.Ⅰ－①と④　イ.Ⅰ－②と⑤　ウ.Ⅰ－③と⑥　エ.Ⅱ－①と⑥　オ.Ⅱ－②と④　カ.Ⅱ－③と⑤